1 Verbinde.

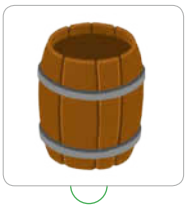




10 l | 6 l | 100 l | 1 l

2 In einer Fabrik werden verschiedene Getränke für den Verkauf abgefüllt. Berechne die jeweilige Füllmenge.

	5 l	9 l	2 l	8 l	10 l	3 l	4 l	6 l
4 ·								
8 ·								
3 ·								
7 ·								
5 ·								

3 Ergänze auf reine Zehner.

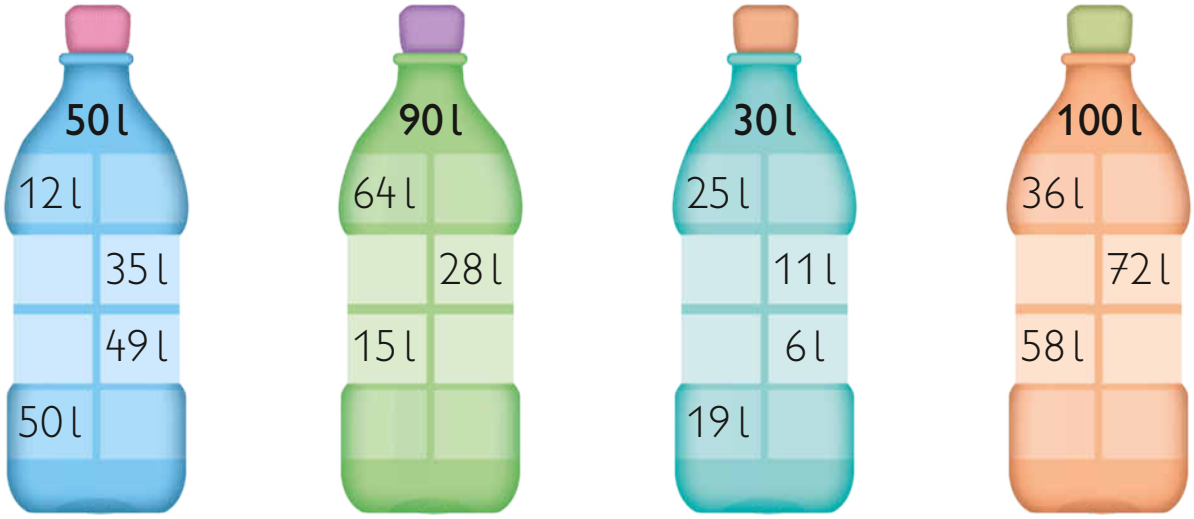

© VERITAS-Verlag, Linz
Illustrationen: Stephan Lorenz